Uzupełnij grafy. Następnie zapisz przedstawione na nich działania.

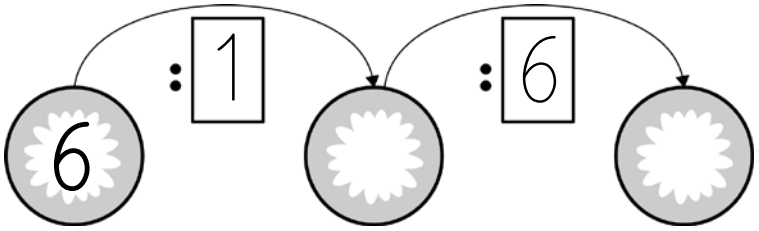

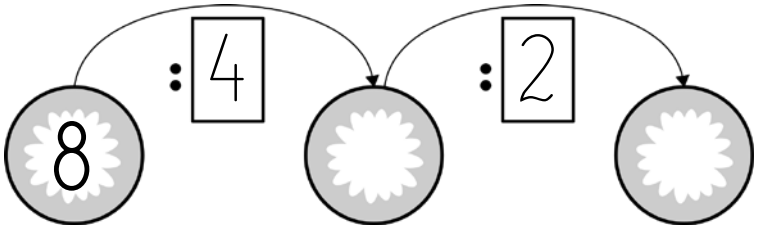

Przeczytaj uważnie tekst i narysuj wskazane elementy zgodnie z opisem. Następnie zapisz obliczenia w formie dzielenia i odpowiedz na zadane pytanie.

Babcia Ludmiła kupiła 10 żonkili i włożyła je po równo do 2 wazonów. Ile kwiatów trafiło do każdego wazonu?



Ludwik kupił 6 cebulek hiacyntów i rozdzielił je po równo do 3 doniczek. Ile sadzonek znajduje się w każdej doniczce?

Copyright©SuperKid.pl

źródło: **www.superkid.pl**